二下数学周末练习（15）

班级：_____；姓名：_____；学号：_____；

一、选择题。

1. 下面不能表示 306 中的“6”的是（　　）。

A. 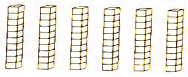 　B. 　C. 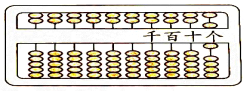

2. 下面说法正确的是（　　）。

A. 在算盘上拨出 6205，一共拨了 13 颗算珠靠梁

B. 最小的四位数与最大的三位数相差 1

C. —（　　）—3100—3110—3120—3130—，（　　）里应填 3000

3. 9□72＜9481，□里最大填（　　）。

A. 9　　B. 4　　C. 3

(4) 下面 A、B、C 三个点中，可能表示 1492 的是（　　）点。

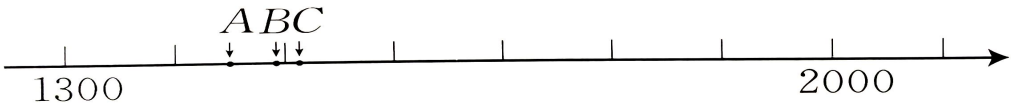

二、估算。(写上过程)

2040 + 5857 ≈　　653 + 457 ≈　　1323 – 493 ≈　　205 + 513 ≈　　7155 – 4952 ≈

三、□里最大能填几？（写完一定要检查！）

6485 > □485　　23□6 < 2347　　7□48 < 7341

四、解决问题

1.商场各电器价格如下：

洗衣机 1900 元　　电饭煲 700 元

电脑 3899 元　　手机 5199 元

(1) 电脑比洗衣机大约贵多少元？

(2) 前面三件电器全买，7000 元够吗？

2. 下面是阳光小学一至三年级的人数（单位：人）。

一年级	二年级	三年级
2□5	298	36□

(1)一年级最多有（　　）人，最少有（　　）人。

(2)（　　）年级的人数最多，（　　）年级的人数最少。

(3)二年级和三年级同时去礼堂参加活动，能坐下吗？